31	基本	表とグラフ	まとめ	学習日	／

1 3年生21人が，国語，算数，理科，社会の中からすきな科目（かもく）をえらび，1人が1つずつかきました。 （8点×3＋6点）

社会　算数　理科　算数　理科　国語　算数
算数　社会　理科　国語　算数　理科　国語
理科　理科　国語　理科　理科　社会　理科

[1]

国語	
算数	
理科	
社会	

[2] すきな科目しらべ

科目	人数(人)
国語	
算数	
理科	
社会	

[3] すきな科目しらべ

(1) [1]の表に正の字をかいて整理しましょう。

(2) 正の字を数字にかきなおして[2]にかきましょう。

(3) [3]に，ぼうグラフに表しましょう。

(4) すきな人がいちばん多い科目は何ですか。 〔　　〕

2 下のグラフで，ぼうの長さは，それぞれどれだけを表していますか。 （5点×4）

①
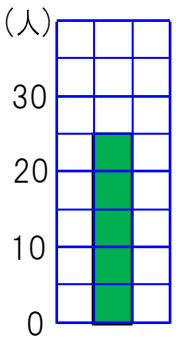

〔　　〕

②
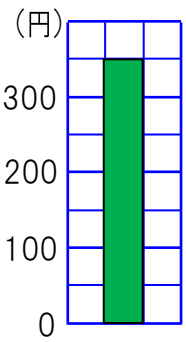

〔　　〕

③
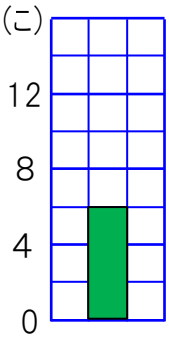

〔　　〕

④
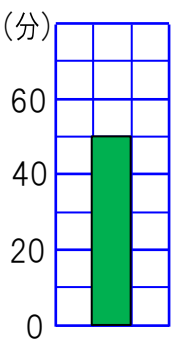

〔　　〕

3 右のぼうグラフは，3年生で，すきなおかしをしらべたものです。

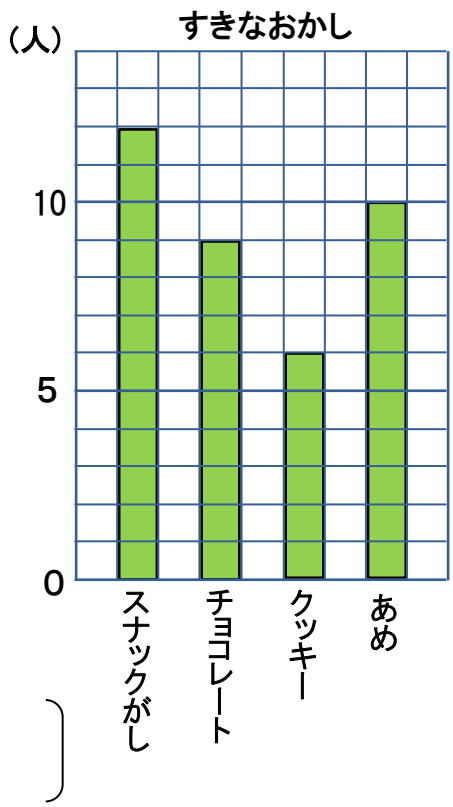

(1) 1目もりは何人をあらわしていますか。（4点）

〔　　〕

(2) それぞれの人数をかきましょう。（4点×4）

スナックがし〔　　〕　チョコレート〔　　〕

クッキー〔　　〕　あめ〔　　〕

(3) グラフを見て，気がついたことをかきましょう。（5点）

〔　　〕

4 4か月間に，3年1組の人たちが図書館（としょかん）でかりた本のしゅるいと数をしらべました。（25点）

かりた本の数（さつ）（9月から12月）

しゅるい＼月	9月	10月	11月	12月	合計
どうわ	13	17	12	12	
でんき	11	9	8	10	
科学	4	3	6	5	
図かん	7	4	3	4	
合計					

(1) 合計のらんに，数をかきましょう。（10点）

(2) 4か月間に でんきをかりた人は，全部で何人ですか。（5点）

〔　　人〕

(3) 4か月間で，かりた数がいちばん多い本のしゅるいは何ですか。（5点）

〔　　〕

(4) 4か月間で，かりた数がいちばん多い月は何月ですか。（5点）

〔　　〕

32	基本	たし算とひき算	暗算（あんざん）	学習日	／

1 いくつになりますか。暗算（あんざん）でしましょう。 （4点×2）

24 ＋ 43 ＝ □　　24 ＋ 48 ＝ □

くり上がらないので
64と3で ……

くり上がるので
64と8で ……

2 つぎの計算を暗算でしましょう。 （2点×9）

① 36＋21＝	④ 27＋23＝	⑦ 38＋25＝
② 43＋35＝	⑤ 51＋29＝	⑧ 16＋47＝
③ 50＋19＝	⑥ 34＋46＝	⑨ 49＋38＝

3 いくつになりますか。暗算（あんざん）でしましょう。 （4点×2）

75 ＋ 42 ＝ □　　88 ＋ 64 ＝ □

75＋40＝115
115と2で ……

88＋60＝148
148と4で ……

4 つぎの計算を暗算でしましょう。 （2点×9）

① 71＋55＝	④ 45＋61＝	⑦ 73＋49＝
② 63＋64＝	⑤ 28＋80＝	⑧ 56＋56＝
③ 89＋50＝	⑥ 32＋77＝	⑨ 67＋85＝

5 いくつになりますか。暗算(あんざん)でしましょう。 （4点×2）

75 － 23 ＝ □　　75 － 28 ＝ □

75－20＝55
55－3＝……

75－20＝55
55－8＝……

6 つぎの計算を暗算でしましょう。 （2点×9）

① 67－25＝	④ 50－13＝	⑦ 32－29＝
② 98－14＝	⑤ 90－46＝	⑧ 64－38＝
③ 76－36＝	⑥ 70－52＝	⑨ 93－47＝

7 いくつになりますか。暗算(あんざん)でしましょう。 （4点）

100 － 43 ＝ □

100－40＝60
60－3＝……

8 つぎの計算を暗算でしましょう。 （2点×9）

① 100－52＝	④ 100－47＝	⑦ 100－94＝
② 100－15＝	⑤ 100－28＝	⑧ 100－98＝
③ 100－33＝	⑥ 100－71＝	⑨ 100－93＝

33	基本	時間と長さ	長さ調べ−1	学習日	／

1 下の地図を見て、問題に答えましょう。 （5点×2）

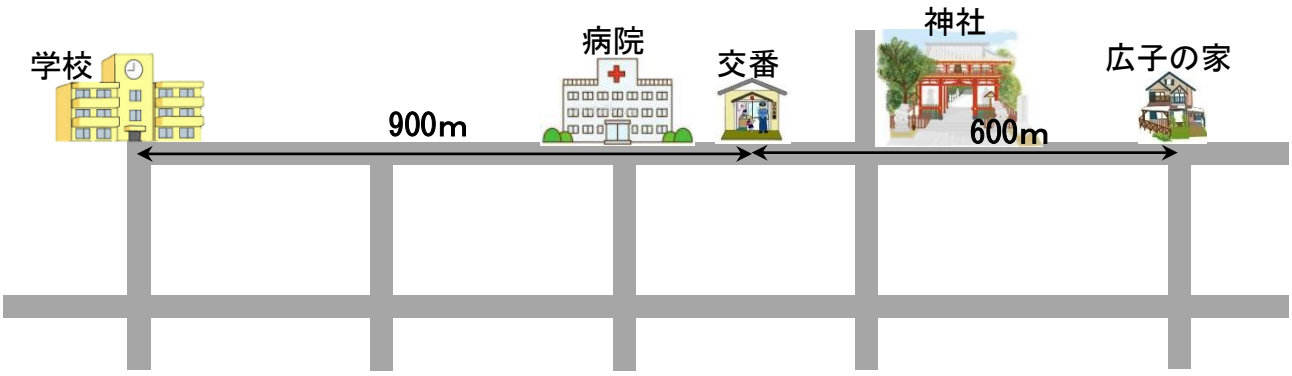

(1) 広子さんの家から学校までは、何mありますか。

（式）

答え（　　m　）

> 道にそってはかった長さを **道のり** といいます。
> 道のりなどを表すときの長さのたんいに **km**（キロメートル）があります。
> **1km＝1000m**です。

(2) 広子さんの家から学校までの道のりは、何km何mですか。

答え（　　km　　m　）

2 □にあてはまる数をかきましょう。 （5点×6）

① 5km＝□m　　② 8000m＝□km

③ 2km300m＝□m　　④ 4900m＝□km□m

⑤ 3050m＝□km□m　　⑥ 6km20m＝□m

3 1kmは次の長さの何倍ですか。 （5点×2）

① 100m ……□倍　　② 10m ……□倍

4 下の地図を見て、問題に答えましょう。 （10点×3）

(1) 病院から学校の前を通って、あきら君の家までの道のりは何km何mですか。

（式）

答え（　　km　　m　）

(2) 学校から神社までは、学校からようち園までより、どれだけ遠いですか。

（式）

答え（　　m　）

(3) 学校までの道のりは、広子さんとあきら君ではどちらがどれだけ近いですか。

（式）

答え（　　）

5 次の計算をしましょう。 （5点×4）

① 1km200m＋800m＝

② 1km600m＋700m＝

③ 1km－400m＝

④ 3km100m－500m＝

km	m

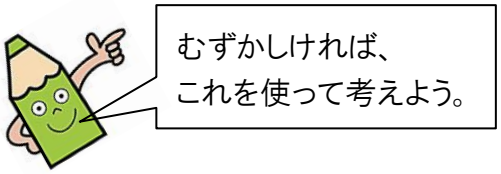

34	基本	時間と長さ	まきじゃくを使って・まとめ	学習日	／

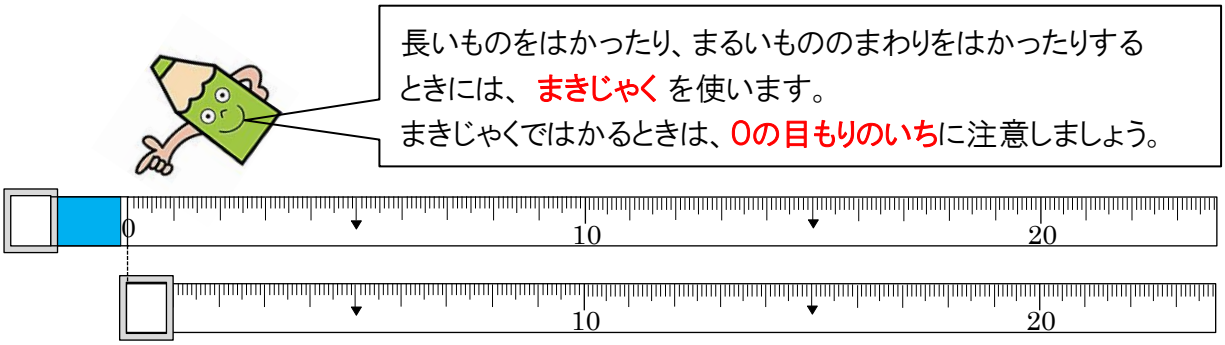

1 □にあてはまることばをかきましょう。 （5点×3）

(1) 長いものをはかるには、□を使うとべんりです。

(2) まるいもののまわりをはかるときには、□を使います。

(3) まきじゃくではかるときは、□の目もりのいちに注意します。

2 下の㋐，㋑，㋒の目もりをよみましょう。 （5点×3）

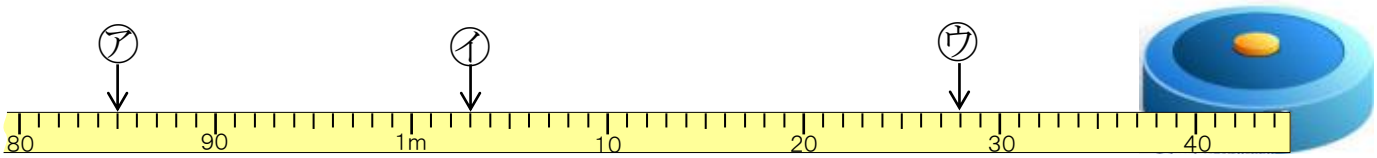

㋐ □　　㋑ □　　㋒ □

3 下の㋐，㋑，㋒，㋓の目もりをよみましょう。 （5点×4）

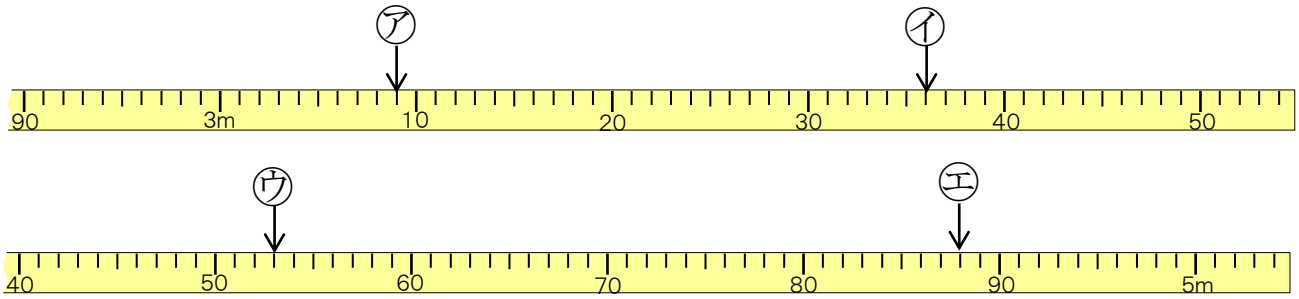

㋐ □　　㋑ □

㋒ □　　㋓ □

4 □にあてはまるたんいをかきましょう。 （4点×4）

(1) つくえのたての長さ …… 45□

(2) 教室のたての長さ …… 9□

(3) 車が1時間に走る道のり …… 50□

(4) 大きなはしらのまわりの長さ …… 360□

5 □にあてはまる数をかきましょう。 （4点×6）

① 7km＝□m　　② 3000m＝□km

③ 1km600m＝□m　　④ 5200m＝□km□m

⑤ 4080m＝□km□m　　⑥ 6km60m＝□m

6 京子さんの家から駅と学校は、下の図のようにはなれています。 （5点×2）

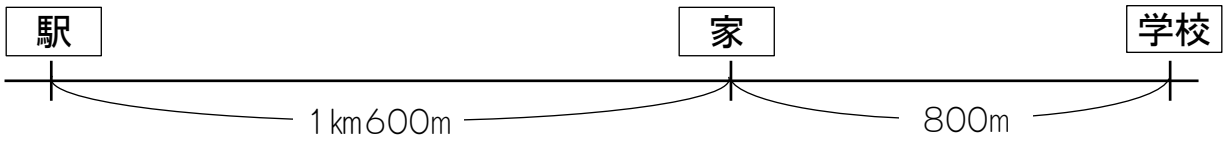

(1) 駅と学校は何km何mはなれていますか。

（式）

答え（　　km　　m　）

(2) 京子さんの家から駅と学校では、学校のほうが何m近いですか。

（式）

答え（　　m　）

35	基本	あまりのあるわり算	あまりのあるわり算のしかた−1	学習日	／

1 あめを１人に3こずつ分けます。 （10点×3）

(1) あめ15こでは、何人に分けられますか。

（式） □ ＝ □ （答え） 人

(2) あめ16こでは、何人に分けられますか。

（式） □



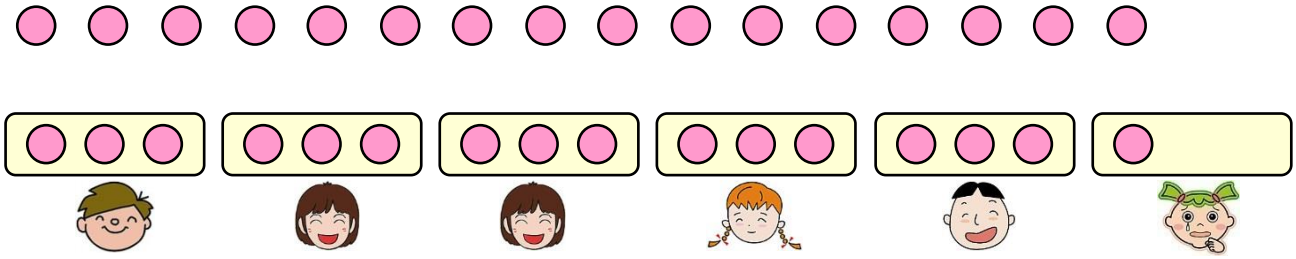

同じ数ずつ分けるとき、あまりが出ることがあります。
このようなとき、次（つぎ）のような式にかきます。
１６÷３＝５あまり１

(3) あめ16こでは、何人に分けられて、何こ あまりますか。

（式） □ ＝ □ あまり □

（答え） 人に分けられて、 こあまる

2 あめ17こを、１人に3こずつ分けていきます。何人に分けられて、何こ あまりますか。 （10点）

（式）

答え〔 〕

15÷3のように、あまりがないとき **わり切れる** といい、
16÷3、17÷3のように、あまりがあるとき **わり切れない** といいます。

3 19 人の子どもたちが、4 人ずつ組になってダンスをします。何組できて、何人あまりますか。□にあてはまる数をかいて考えましょう。（6点×3）

㋐ 19÷4＝1あまり15　（あまりで、4 人の組がまだつくれる→おかしい）

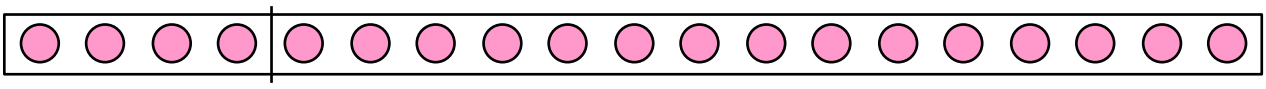

㋑ 19÷4＝2あまり□　（あまりで、4 人の組がまだつくれる→おかしい）

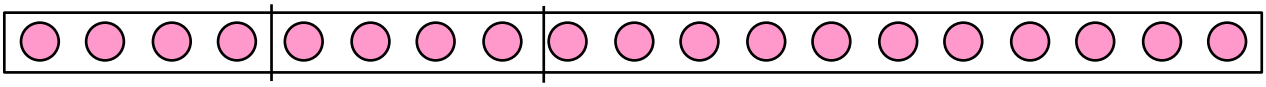

㋒ 19÷4＝3あまり□　（あまりで、4 人の組がまだつくれる→おかしい）

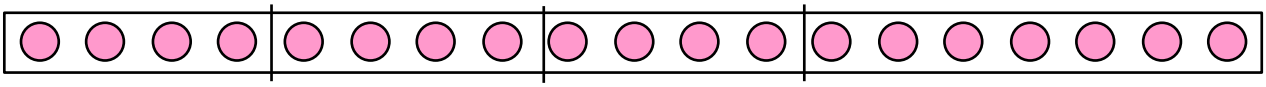

㋓ 19÷4＝4あまり□　（あまりで、4 人の組はつくれない→正しい）

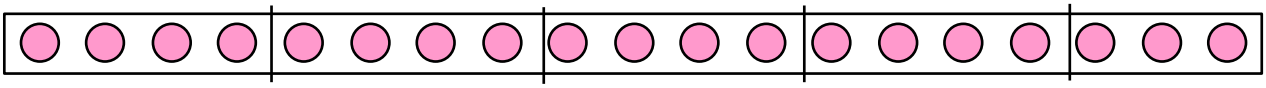

4 子どもたちが、4 人ずつ組になってダンスをします。人数が、20 人、21 人、22 人、23 人、24 人のとき、できる組の数と、あまる人数を調（しら）べます。□にあてはまる数をかきましょう。（6点×5）

① 20 人のとき……20÷4＝□　（あまりなし）

② 21人のとき……21÷4＝□あまり□

③ 22人のとき……22÷4＝□あまり□

④ 23人のとき……23÷4＝□あまり□

⑤ 24人のとき……24÷4＝□　（あまりなし）

わり算のあまりは、
いつも わる数より
小さくなります。
あまり ＜ わる数

5 まちがいをなおしましょう。（6点×2）

① 28÷5＝4あまり8　　② 38÷4＝8あまり6

36	基本	あまりのあるわり算	あまりのあるわり算のしかた−2	学習日	／

1 次(つぎ)の計算をしましょう。 （2点×15）

① 5÷2　② 7÷3　③ 24÷5

④ 30÷4　⑤ 25÷7　⑥ 69÷8

⑦ 22÷6　⑧ 67÷9　⑨ 13÷4

⑩ 54÷8　⑪ 33÷7　⑫ 70÷9

⑬ 41÷6　⑭ 62÷8　⑮ 62÷7

2 クッキーが33こあります。 （11点×2）

(1) 1ふくろに5こずつ入れると、何ふくろできて、何こあまりますか。

（式）

答え〔　　〕

(2) 6人に同じ数ずつ分けると、1人何こになって、何こあまりますか。

（式）

答え〔　　〕

3 40mのなわがあります。これから6mのなわが何本とれて、何mのこりますか。

（12点）



（式）

答え〔　　〕

4 26このりんごを、5人に同じ数ずつ分けます。1人分は何こになって、何こあまりますか。

（12点）

（式）

答え〔　　〕

5 20dL の牛にゅうを、コップに3dL ずつ入れていきます。何はい入れられて、何dLのこりますか。

（12点）

（式）

答え〔　　〕

6 60mのリボンから、7mのリボンは何本とれて、何mあまりますか。

（12点）

（式）

答え〔　　〕